INSTITUCIÓN EDUCATIVA SAN LUCAS

GESTIÓN ACADÉMICA

GUÍA DE CLASES

Código: GA-F020
Versión: 1
Vigencia: 30/03/2020

Asignatura: GEOMETRÍA 7º	**Grado: séptimo**
Contenido: PERÍMETRO DE FIGURAS PLANAS	
Aprendizajes: Utiliza procedimientos y fórmulas adecuadas para hallar el perímetro de una figura plana.	
Saberes previos: Unidades de longitud.	

Fases	Actividades	Recursos	Desempeños
Inicio	Cordial saludos jóvenes, espero que todos se encuentren muy bien, con la venia de nuestro señor Dios padre, en estos momentos tan difíciles, que todos estamos esperando que terminen muy pronto y poder reencontrarnos. Continuando con nuestro proceso de estudio, seguiremos en el conocimiento del perímetro de figuras planas. ACTIVIDAD DE REPASO: Deberás realizar figuras geométricas, para mejorar el proceso de realización de los dibujos y poder identificar las diferentes figuras relacionándolas con su concepto.	Libreta de matemáticas Teléfono celular o computador con conexión a internet. Guías de clase del área	Recuerda los algoritmos de la simbolización de los puntos. Recuerda los algoritmos de la simbolización de las líneas rectas. Recuerda los algoritmos de los segmentos de rectas.

INSTITUCIÓN EDUCATIVA SAN LUCAS

GESTIÓN ACADÉMICA

GUÍA DE CLASES

Código: GA-F020
Versión: 1
Vigencia: 30/03/2020

Asignatura: GEOMETRÍA 7º	**Grado: séptimo**
Contenido: PERÍMETRO DE FIGURAS PLANAS	
Aprendizajes: Utiliza procedimientos y fórmulas adecuadas para hallar el perímetro de una figura plana.	
Saberes previos: Unidades de longitud.	

Fases	Actividades	Recursos	Desempeños
	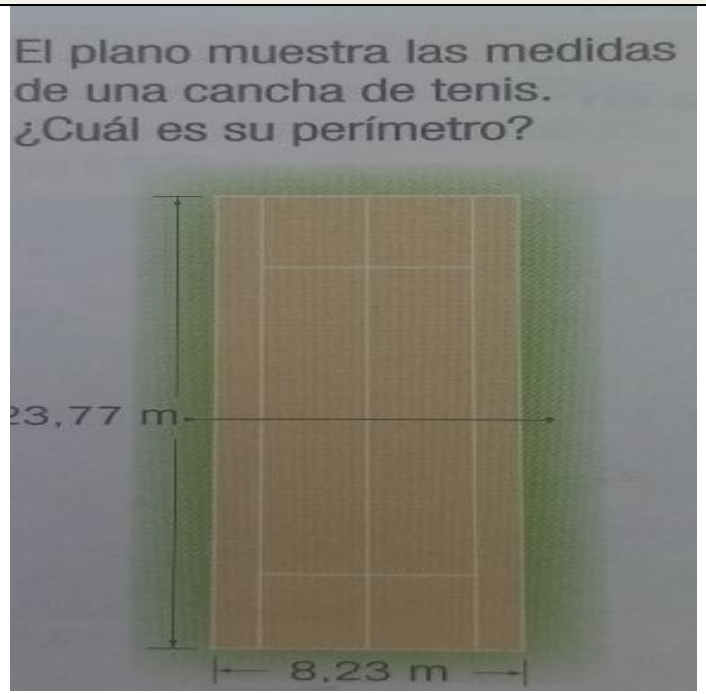 Para calcular el perímetro de la anterior cancha se procede a sumar todos los lados de ella, en la siguiente forma: 23,77m +8,23m +23,77m + 8,23m = 64m Por lo cual podemos concluir que:		Utiliza patrón de medidas de longitud adecuadamente

INSTITUCIÓN EDUCATIVA SAN LUCAS

GESTIÓN ACADÉMICA

GUÍA DE CLASES

Código: GA-F020
Versión: 1
Vigencia: 30/03/2020

Asignatura: GEOMETRÍA 7º	**Grado: séptimo**
Contenido: PERÍMETRO DE FIGURAS PLANAS	
Aprendizajes: Utiliza procedimientos y fórmulas adecuadas para hallar el perímetro de una figura plana.	
Saberes previos: Unidades de longitud.	

Fases	Actividades	Recursos	Desempeños
	PERÍMETRO DE UNA FIGURA PLANA Para hallar el perímetro de una figura plana basta con sumar todos y cada uno de los lados de la figura. **EJEMPLO** Dadas las siguientes figuras, calcule los perímetros 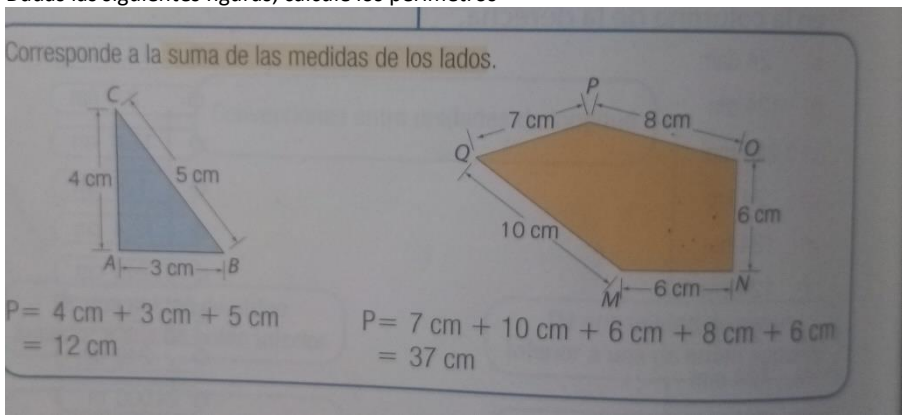 Los perímetros calculados son: para el triángulo P = 4cm + 3cm + 5cm =12cm Para el pentágono P= 10cm +6cm +6cm + 8cm +7cm37cm		

INSTITUCIÓN EDUCATIVA SAN LUCAS

GESTIÓN ACADÉMICA

GUÍA DE CLASES

Código: GA-F020
Versión: 1
Vigencia: 30/03/2020

Asignatura: GEOMETRÍA 7º			**Grado: séptimo**
Contenido: PERÍMETRO DE FIGURAS PLANAS			
Aprendizajes: Utiliza procedimientos y fórmulas adecuadas para hallar el perímetro de una figura plana.			
Saberes previos: Unidades de longitud.			
Fases		**Actividades**	
Cierre	**Dinámicas**	**Individual**	**Grupal**
		Soluciona las siguientes actividades y recuerda si tienes alguna duda, llama a tu docente de inmediato. 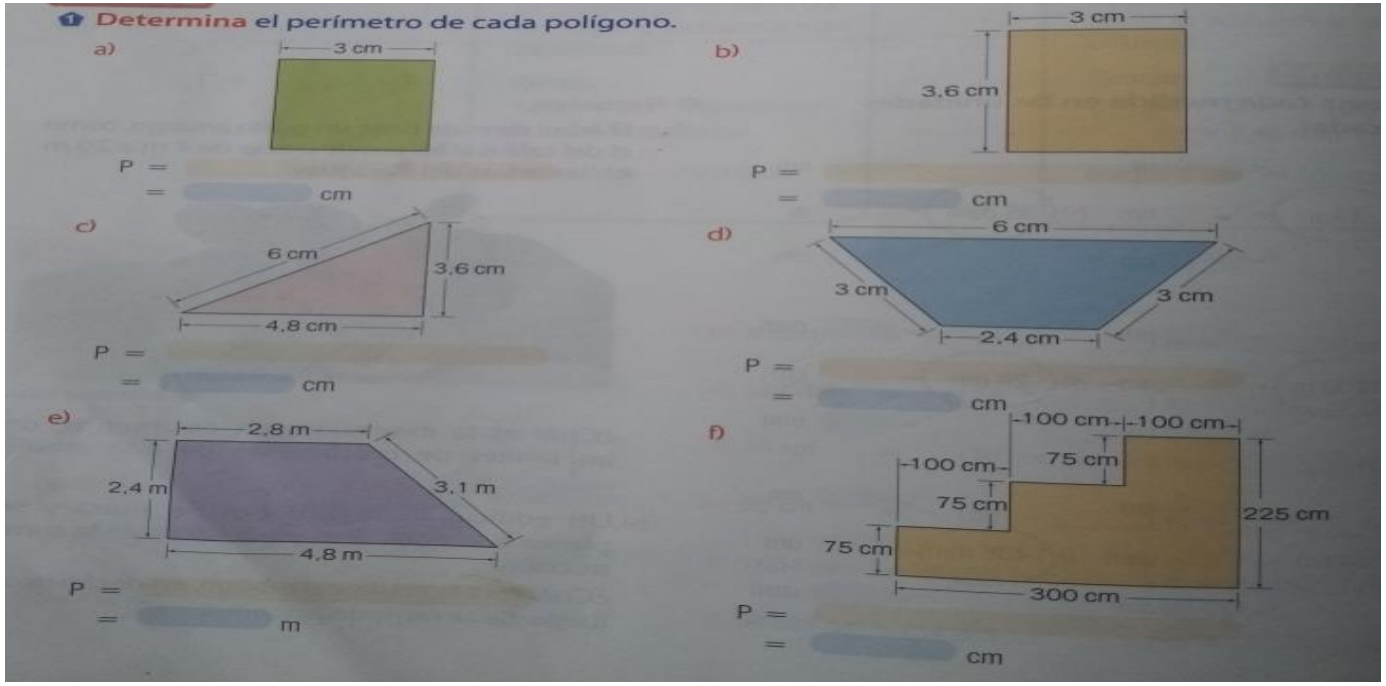	

INSTITUCIÓN EDUCATIVA SAN LUCAS

GESTIÓN ACADÉMICA

Código: GA-F020
Versión: 1
Vigencia: 30/03/2020

GUÍA DE CLASES

Asignatura: GEOMETRÍA 7º		**Grado: séptimo**
Contenido: PERÍMETRO DE FIGURAS PLANAS		
Aprendizajes: Utiliza procedimientos y fórmulas adecuadas para hallar el perímetro de una figura plana.		
Saberes previos: Unidades de longitud.		
Fases	**Actividades**	
	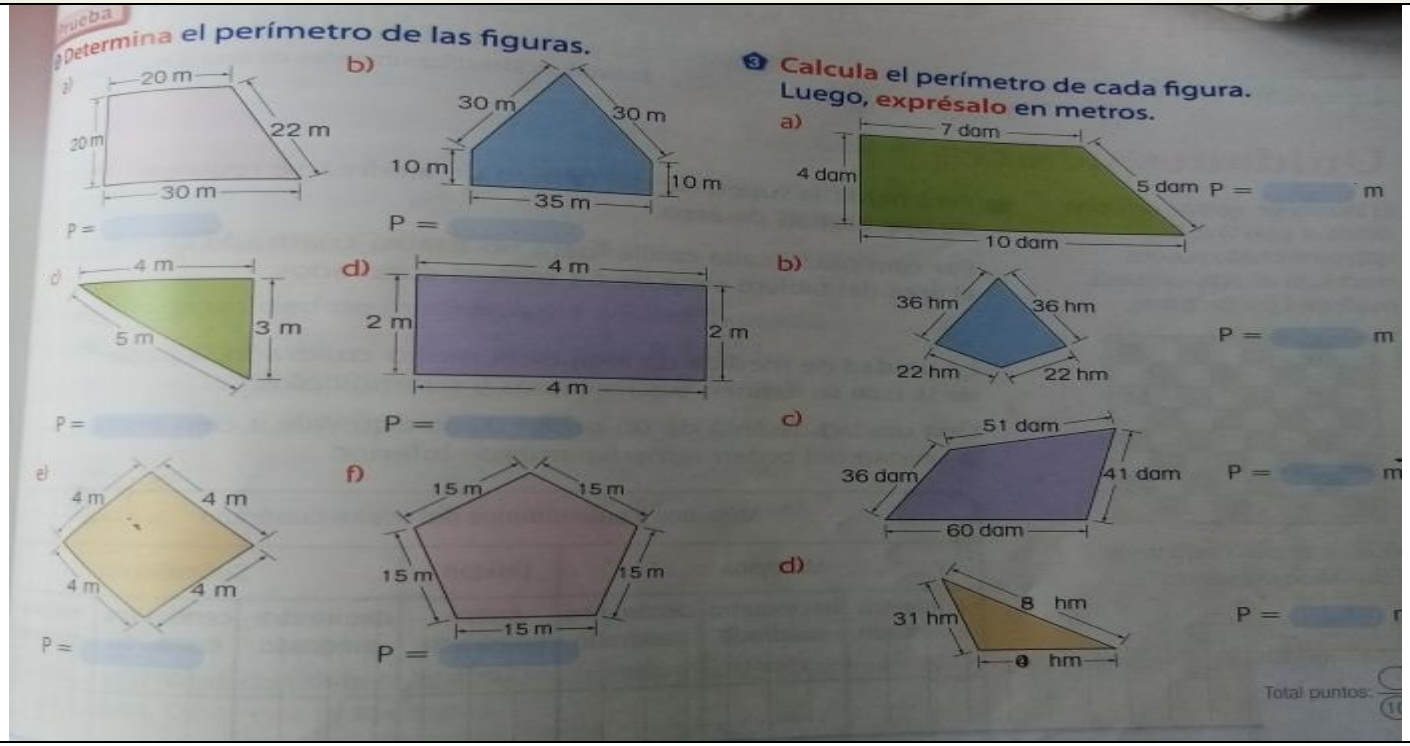	
Evaluación (Heteroevaluación, Coevaluación, Autoevaluación	Revisión de las actividades por parte del docente. Enviar al correo del docente. Responde y comparte con tu profesor las siguientes preguntas: ¿Qué te pareció la actividad? ¿Tuviste alguna dificultad? Sí ____ No ____ ¿Cual?_____ ¿Para qué te sirve lo que aprendiste hoy?	
Bibliografía	MATEMÁTICAS 7, SUÁREZ Olarte Alberto, editorial educativa,2007 MATEMÁTICAS SOLUCIONES 7, MELO Rodríguez Clara Esther, editorial futuro,2007.	

INSTITUCIÓN EDUCATIVA SAN LUCAS

GESTIÓN ACADÉMICA

GUÍA DE CLASES

Código: GA-F020
Versión: 1
Vigencia: 30/03/2020